Mesures de périmètres.

1. Calcule le périmètre des figures suivantes.

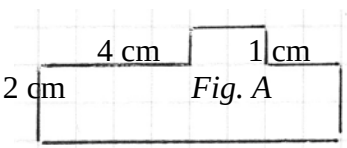

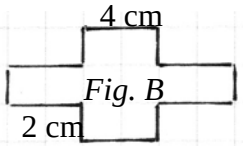

2. Calcule le périmètre d'un carré de côté 7 cm.
3. Calcule le périmètre d'un carré de côté 9 cm.
4. Calcule le périmètre d'un rectangle de longueur 7 cm et de largeur 3 cm.
5. Calcule le périmètre d'un rectangle de longueur 9 cm et de largeur 4 cm.
6. Calcule le périmètre d'un carré de côté 12 cm.
7. Calcule le périmètre d'un rectangle : L = 8 cm et l = 5 cm.

Mesures de périmètres.

1. Calcule le périmètre des figures suivantes.

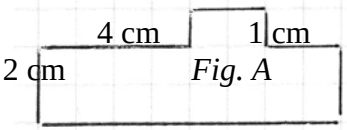

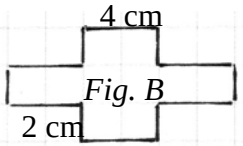

2. Calcule le périmètre d'un carré de côté 7 cm.
3. Calcule le périmètre d'un carré de côté 9 cm.
4. Calcule le périmètre d'un rectangle de longueur 7 cm et de largeur 3 cm.
5. Calcule le périmètre d'un rectangle de longueur 9 cm et de largeur 4 cm.
6. Calcule le périmètre d'un carré de côté 12 cm.
7. Calcule le périmètre d'un rectangle : L = 8 cm et l = 5 cm.

Mesures de périmètres.

1. Calcule le périmètre des figures suivantes.

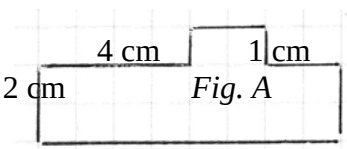

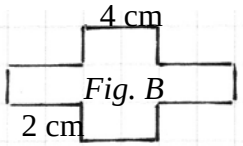

2. Calcule le périmètre d'un carré de côté 7 cm.
3. Calcule le périmètre d'un carré de côté 9 cm.
4. Calcule le périmètre d'un rectangle de longueur 7 cm et de largeur 3 cm.
5. Calcule le périmètre d'un rectangle de longueur 9 cm et de largeur 4 cm.
6. Calcule le périmètre d'un carré de côté 12 cm.
7. Calcule le périmètre d'un rectangle : L = 8 cm et l = 5 cm.

Mesures de périmètres.

1. Calcule le périmètre des figures suivantes.

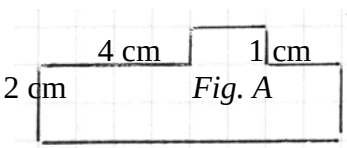

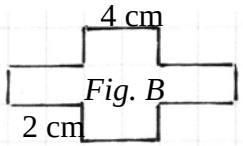

2. Calcule le périmètre d'un carré de côté 7 cm.
3. Calcule le périmètre d'un carré de côté 9 cm.
4. Calcule le périmètre d'un rectangle de longueur 7 cm et de largeur 3 cm.
5. Calcule le périmètre d'un rectangle de longueur 9 cm et de largeur 4 cm.
6. Calcule le périmètre d'un carré de côté 12 cm.
7. Calcule le périmètre d'un rectangle : L = 8 cm et l = 5 cm.

Mesures de périmètres.

1. Calcule le périmètre des figures suivantes.

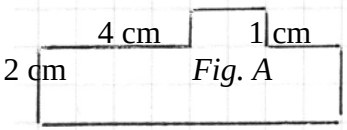

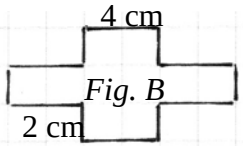

2. Calcule le périmètre d'un carré de côté 7 cm.
3. Calcule le périmètre d'un carré de côté 9 cm.
4. Calcule le périmètre d'un rectangle de longueur 7 cm et de largeur 3 cm.
5. Calcule le périmètre d'un rectangle de longueur 9 cm et de largeur 4 cm.
6. Calcule le périmètre d'un carré de côté 12 cm.
7. Calcule le périmètre d'un rectangle : L = 8 cm et l = 5 cm.

Mesures de périmètres.

1. Calcule le périmètre des figures suivantes.

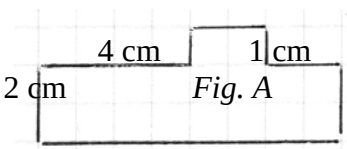

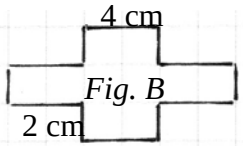

2. Calcule le périmètre d'un carré de côté 7 cm.
3. Calcule le périmètre d'un carré de côté 9 cm.
4. Calcule le périmètre d'un rectangle de longueur 7 cm et de largeur 3 cm.
5. Calcule le périmètre d'un rectangle de longueur 9 cm et de largeur 4 cm.
6. Calcule le périmètre d'un carré de côté 12 cm.
7. Calcule le périmètre d'un rectangle : L = 8 cm et l = 5 cm.